Η σωστή επανάληψη με τον καθηγητή στην οθόνη σου.
Το School Doctor σε προετοιμάζει δίνοντας σου τα SOS!

Τύπωσε και λύσε την άσκηση ακριβώς όπως την λύνει ο καθηγητής μας στο διπλανό βίντεο. Φωτογράφησε και στείλε μας την λύση στο info@schooldoctor.gr . Σύντομα ένας καθηγητής μας θα επικοινωνήσει μαζί σου και θα διορθώσει μαζί σου τυχόν λάθη.

SCHOOLDOCTOR	**Ηλεκτρικό ρεύμα**
	ΟΝΟΜΑΤΕΠΩΝΥΜΟ ΜΑΘΗΤΗ:
	ΤΗΛΕΦΩΝΟ ΕΠΙΚΟΙΝΩΝΙΑΣ:
	EMAIL: **Facebook:**

Στο SCHOOLDOCTOR πιστεύουμε ότι αν προσπαθήσεις να λύσεις και να κατανοήσεις σωστά όλα τα θέματα που παρουσιάζουμε με τον ίδιο τρόπο, δεν έχεις να φοβηθείς τίποτα στις εξετάσεις. Για οποιαδήποτε απορία επικοινώνησε μαζί μας στο 211-8008289

ΘΕΜΑ 9ο

Α. Σε κάθε μια από τις παρακάτω συνδεσμολογίες να υπολογίσετε την ισοδύναμη αντίστασή τους αν R=10Ω και R'=20Ω.

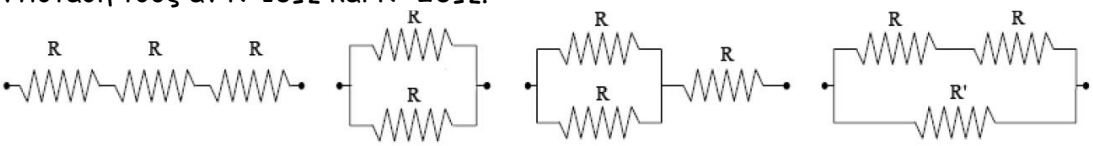

Α **Β** **Γ** **Δ**

.....
.....
.....
.....
.....
.....
.....
.....
.....
.....
.....
.....
.....
.....

.....
.....
.....
.....
.....
.....
.....
.....
.....
.....

Β. Σε ποιο από τα δύο κυκλώματα, Α ή Β, είναι συνδεδεμένα σωστά τα όργανα; (αμπερόμετρο, βολτόμετρο)
Δικαιολόγησε.

Γ. Η συμβατική φορά του ρεύματος είναι από το Γ > Δ ή από το Δ > Γ ;

Δ. Αν οι ενδείξεις των οργάνων στο ορθό κύκλωμα είναι 1 Α και 10 V να βρεθεί η αντίσταση R του κυκλώματος.

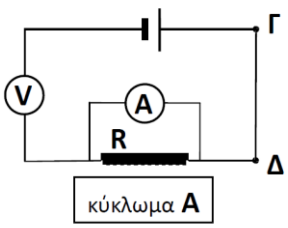

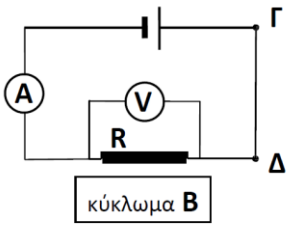

.....
.....
.....
.....
.....
.....
.....
.....